Prénom : _____ Date : ___ / ___ / ___

CP Mathématiques : évaluation PERIODE 2

1– Complète chaque case avec les nombres demandés

☐ ☐ ☐ ☐ ☐ ☐ ☐ ☐ ☐ ☐

Je lis et j'écris les nombres : A - VA - NA

2– Calculs oraux

☐ ☐ ☐ ☐ ☐ ☐

Je calcule mentalement des calculs additifs : A - VA - NA des calculs soustractifs : A - VA - NA

3– Entoure le plus petit. Barre le plus grand

16 24 11

53 45 42

32 26 18

Je compare deux entiers : A - VA - NA

4– Problème → Combien Arthur a-t-il de soleils?

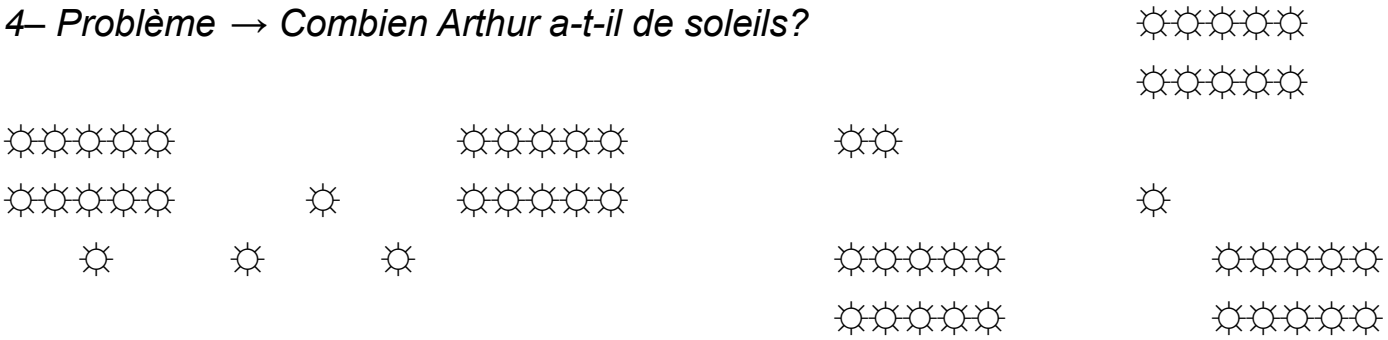

Arthur a ……..soleils.

Je dénombre une quantité par groupement : A - VA - NA

5– Complète les égalités.

6 + 5 = ... 3 + ... = 10 8 — 2 = ...

8 + 8 = ... 5 + ... = 10 5 — 2 = ...

9 + 5 = ... 10 — . . . . . = 8 7 — 4 = ...

Je calcule une somme : A - VA - NA un complément : A - VA - NA une différence : A - VA - NA

Laaimesaclasse.eklablog.com

6- *Complète la suite des nombres suivants*

de 2 en 2

	50												

Je compte de 2 en 2 : A - VA - NA

de 5 en 5

10 ○ ○ ○ ○ ○ ○ ○ ○ ○ ○ ○ ○

Je compte de 5 en 5 : A - VA - NA

de 10 en 10

08													

Je compte de 10 en 10: A - VA - NA

7- *Ecris les doubles que tu connais*

_____ + _____ = _____ _____ + _____ = _____

_____ + _____ = _____ _____ + _____ = _____

_____ + _____ = _____ _____ + _____ = _____

_____ + _____ = _____ _____ + _____ = _____

_____ + _____ = _____ _____ + _____ = _____

Je connais les doubles : A - VA - NA

8– *Problèmes*

Dans la boîte, il y a 3 crayons bleus, 3 crayons rouges et

4 crayons verts.

Combien y a t'il de crayons ?

Il y a _____ crayons.

Arthur achète 10 bonbons.
En chemin, il en perd 3.

Combien lui en reste t-il ?

Il lui reste _____ bonbons.

Lalaaimesaclasse.eklablog.com

Je sais expliquer ma démarche : A - VA - NA Je sais résoudre le problème : A - VA - NA

9– Place les nombres suivants dans la file

34 - 40 - 45 - 42 - 53 - 59 - 49 - 56 - 55 - 37

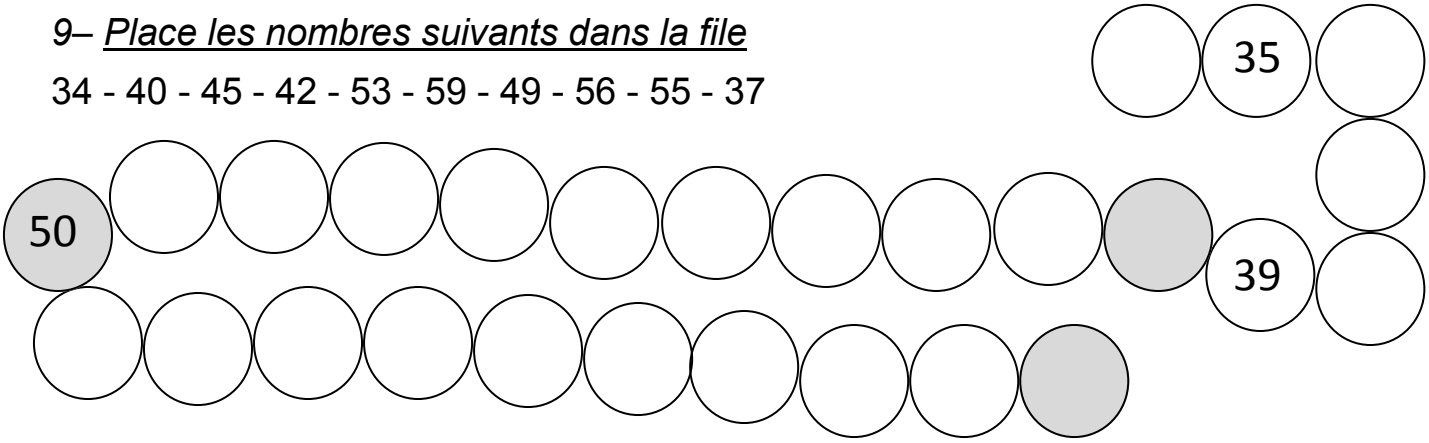

Je situe les nombres sur une ligne graduée : A - VA - NA

10– Ecris le nombre de doigts

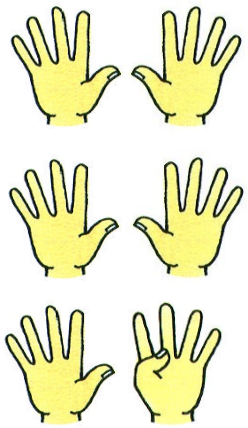	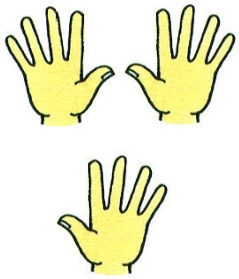	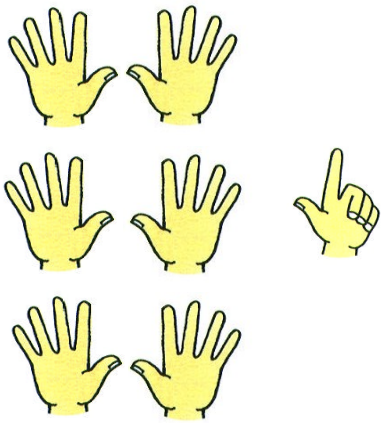

Dessine les dés correspondants au nombre demandé

21	19

Lalaaimesaclasse.eklablog.com

Je connais la valeur positionnelle de chaque chiffre dans le nombre : A - VA - NA

11- *Trace le quadrillage à l'aide de la règle puis place les pions comme sur le modèle*

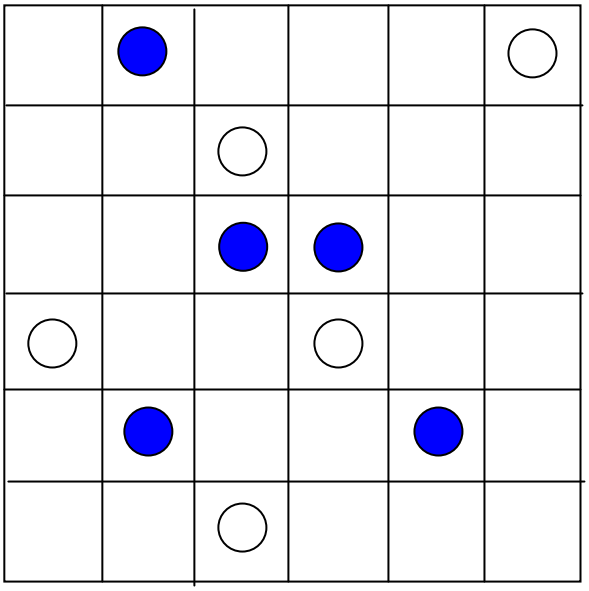

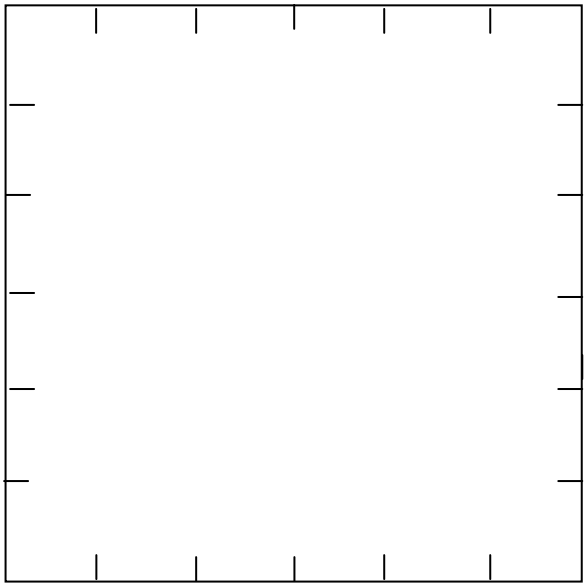

Je sais me déplacer sur un quadrillage : A - VA - NA

12- *Reproduis le modèle à partir du rond. Trace les traits à la règle.*

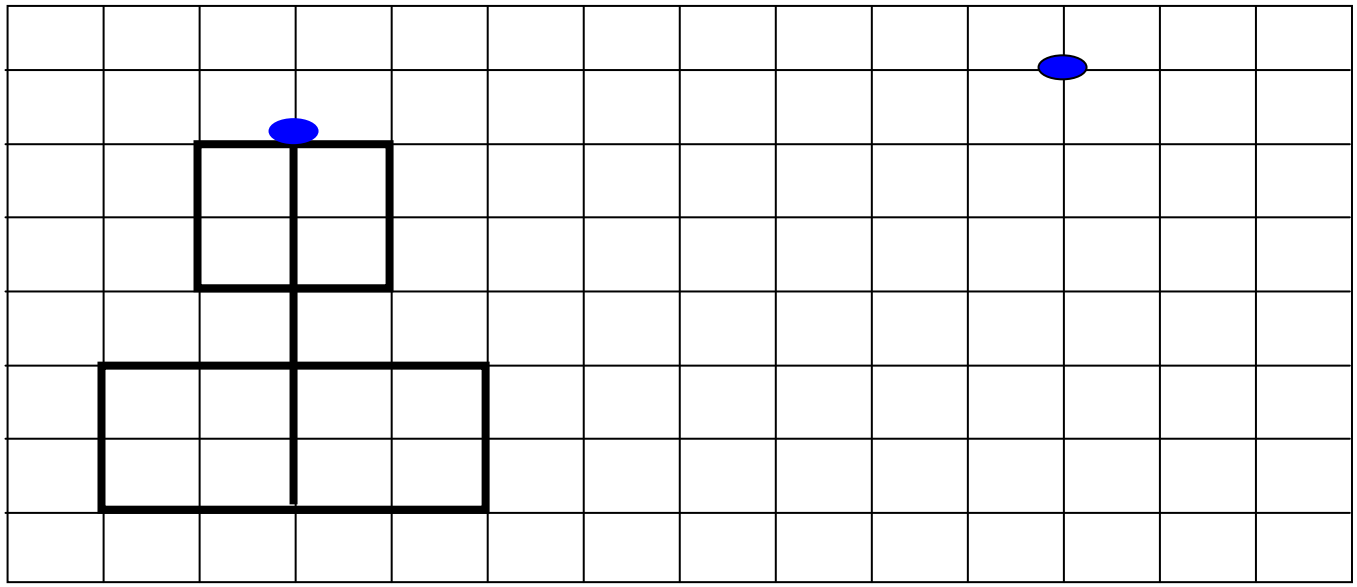

Lalaaimesaclasse.eklablog.com

Je sais reproduire un modèle sur un quadrillage : A - VA - NA

13- Mesure chaque chemin en reportant l'unité



Le chemin a mesure _____ unités.

Le chemin b mesure _____ unités. ⇒ Ont-ils la même longueur ? _____

14- Zoé veut une bande grise de 3 unités. Marque l'endroit où elle doit couper.

Je sais mesurer des segments : A - VA - NA

15- Colorie en bleu les cercles, en rouge les carrés, en jaune les triangles, en vert

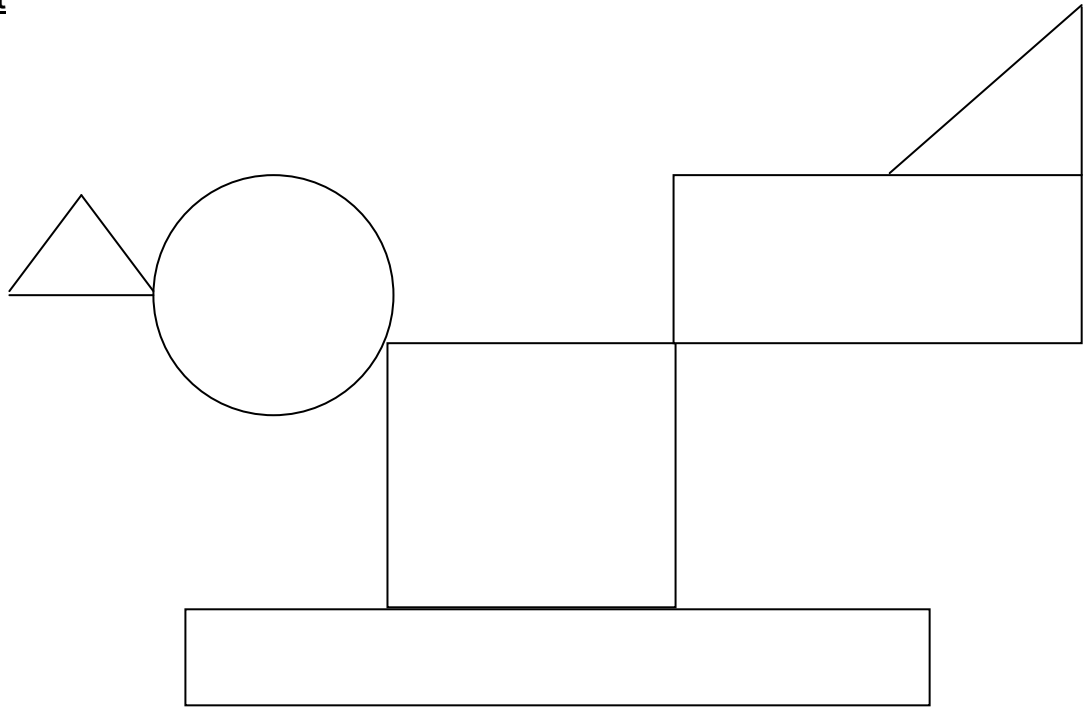

Je distingue des formes simples (carré, triangle, rectangle, cercle) : A - VA - NA

Lalaaimesaclasse.eklablog.com

unité